小一數學模擬試卷

根據「綜合練習 (1)」編製 ・ 全卷共 42 題 ・ 滿分 100 分 ・ 建議作答時間：40 分鐘

姓名：＿＿＿＿＿＿ 班別：1C 學號：＿＿＿＿ 日期：＿＿＿＿＿＿ 成績：＿＿＿＿ / 100

甲部 計算（每題 2 分，共 18 分）

用直式計算，在（ ）內填上正確的答案。

1.
$$\begin{array}{r} 9 \\ +\ 6 \\ \hline ( ) \end{array}$$

2.
$$\begin{array}{r} ( ) \\ +\ 8 \\ \hline 13 \end{array}$$

3.
$$\begin{array}{r} 15 \\ -\ ( ) \\ \hline 15 \end{array}$$

4.
$$\begin{array}{r} 14 \\ -\ 7 \\ \hline ( ) \end{array}$$

5.
$$\begin{array}{r} 8 \\ -\ 5 \\ \hline ( ) \end{array}$$
再
$$\begin{array}{r} ( ) \\ +\ 4 \\ \hline ( ) \end{array}$$

6.
$$\begin{array}{r} 17 \\ -\ 8 \\ \hline ( ) \end{array}$$
再
$$\begin{array}{r} ( ) \\ -\ 3 \\ \hline ( ) \end{array}$$

7.
$$\begin{array}{r} 3 \\ 5 \\ +\ 2 \\ \hline ( ) \end{array}$$

8.
$$\begin{array}{r} ( ) \\ -\ 8 \\ \hline 8 \end{array}$$

9.
$$\begin{array}{r} 7 \\ +\ ( ) \\ \hline 16 \end{array}$$

乙部 符號填充（每題 2 分，共 10 分）

在（ ）內填上「=」「≠」「+」或「−」，使數式成立。

10. $5 + 0 = 13$（ ）8

11. $6 + 9$（ ）$9 + 6$

12. $9 + 2$（ ）$5 + 5$

13. $16 - 8 = 4$（ ）4

14. $2 + 3 + 4 = 12$（ ）3

丙部 數列（每題 2 分，共 8 分）

填上缺少的數。

15. 4、5、（ ）、7、（ ）

16. 12、（）、10、9、（）

17. 5、（）、9、11、（）

18. （）、18、16、（）、12

丁部 應用題（第 19–21、23 題每題 4 分；第 22 題 8 分；共 24 分）

列出數式計算，答案須寫上單位。

19. 嘉晴有貼紙 8 張，哥哥有貼紙 9 張，他們共有貼紙多少張？

20. 欣欣有波子 15 粒，樂樂比欣欣少 6 粒，樂樂有波子多少粒？

21. 橙汁有 11 盒，檸檬茶有 7 盒，檸檬茶比橙汁少幾盒？

22. 巴士上有乘客 18 人，第一個站有 9 人下車，第二個站再有 4 人下車，巴士上還有乘客多少人？【須詳列計算步驟】

23. 盒裏有紅珠 5 粒、藍珠 4 粒、黃珠 6 粒，盒裏共有珠多少粒？

戊部 短答、量度與圖形（每題 2 分；第 37 題 4 分；共 40 分）

24. 在 76 這個數中，7 在 _____ 位，表示 _____。

25. 下圖算柱所表示的數是 _____，讀作 _____。

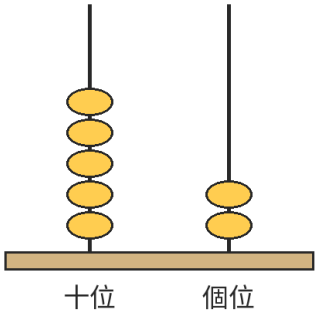

26. 把 45、28、39、41、33 由大至小排列：

_____ > _____ > _____ > _____ > _____

27. 根據下圖，枱面的闊度約 _____ 個回形針。

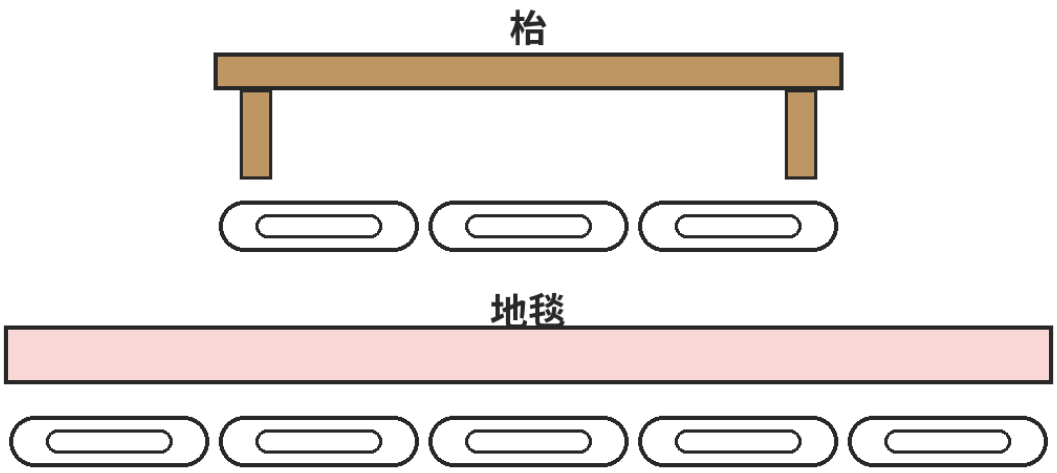

28. 子軒把 12 塊曲奇放在兩個盒子裏，盒子 A 有 5 塊（見下圖），盒子 B 有曲奇多少塊？

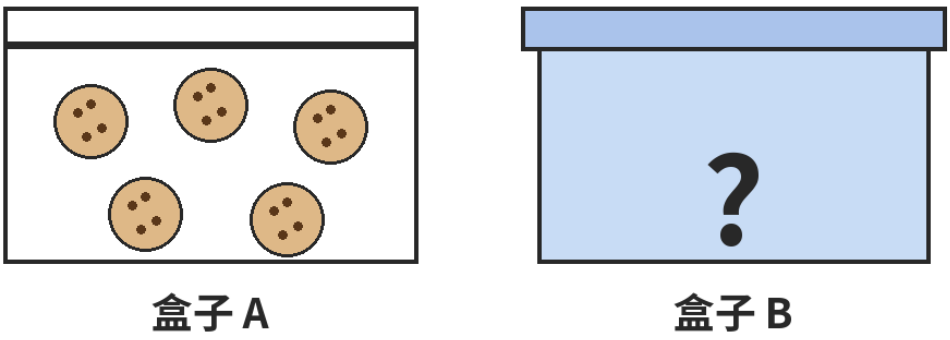

A. 5 塊 B. 7 塊 C. 17 塊

29. 三文治 _____ 最厚。（用英文字母作答）

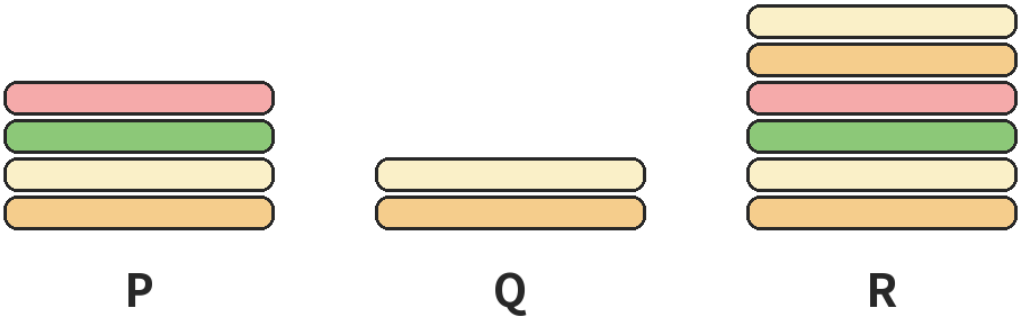

30. 以下哪一個自訂單位最適合用來量度書枱的闊度？

A. 地拖 B. 萬字夾 C. 磁鐵 D. 鉛筆

31. 比較 A 和 B 所走的路程：較長的是（A / B），較短的是（A / B）。

32. 比較 B 和 C 所走的路程：較長的是（B / C），較短的是（B / C）。

所以，三人之中路程最長的是 _____，最短的是 _____。

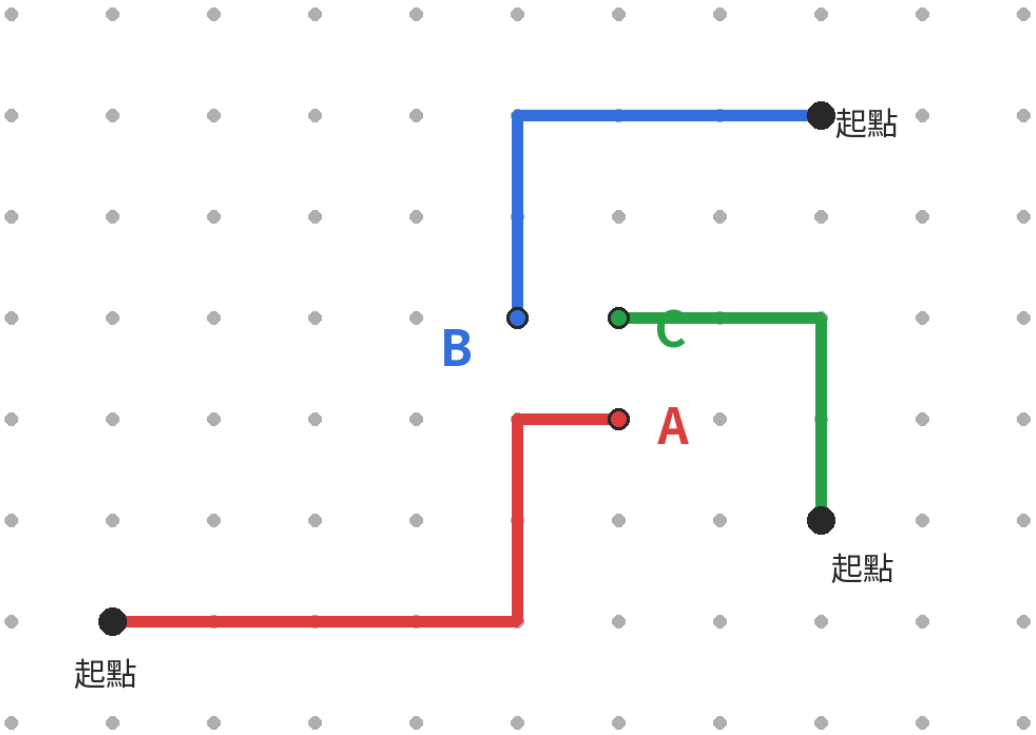

33. 比較原子筆的長度，由長至短排列出來：_____、_____、_____

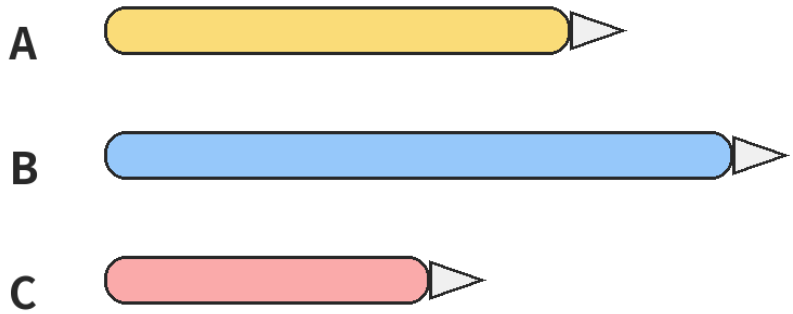

34. 寫出下圖立體圖形的名稱：_____

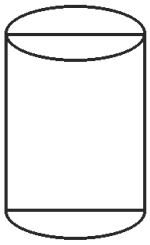

35. 碟上有 12 粒提子，姐姐吃了 5 粒，妹妹吃了 7 粒，碟子現有提子 _____ 粒。

36. 寫出一個比 30 小、比 24 大的奇數：_____

37. 以下哪些立體圖形能疊穩，但不能滾動？（用英文字母作答）_____（4 分）

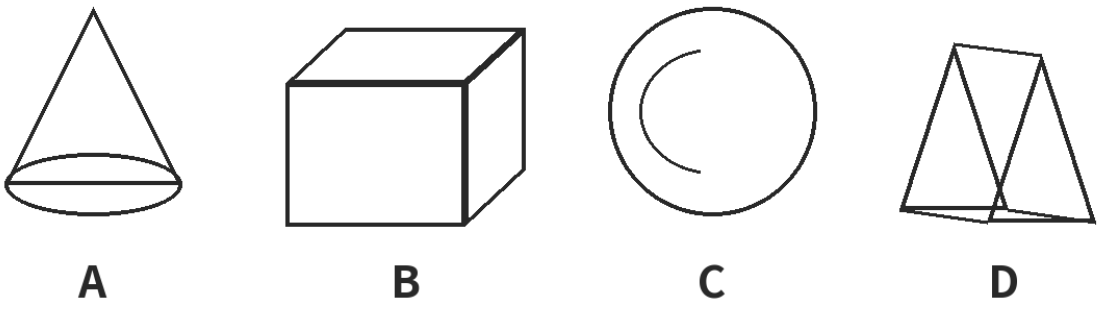

38. 比子晴矮的小朋友是（ 詠彤 / 美玲 ）？



39. 距離學校最遠的小朋友是（ 子晴 / 詠彤 / 美玲 ） ？

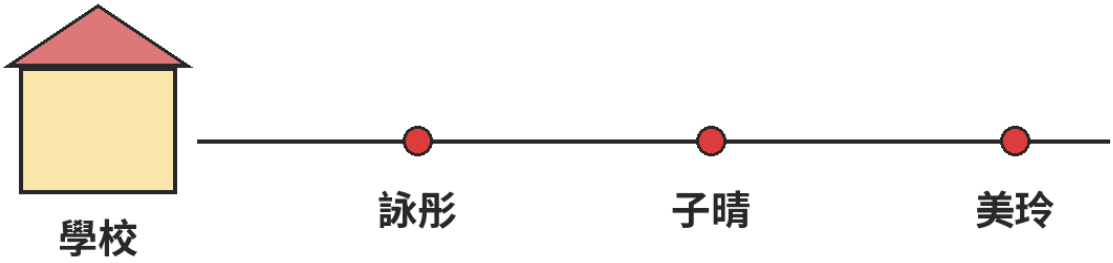

40. 在儲物櫃的上層，（ 球體 / 圓柱 ）在右面。

41. 在儲物櫃的下層，（ 圓柱 / 角錐 ）在右面。

42. 球體在角錐的（ 上 / 下 ）面。

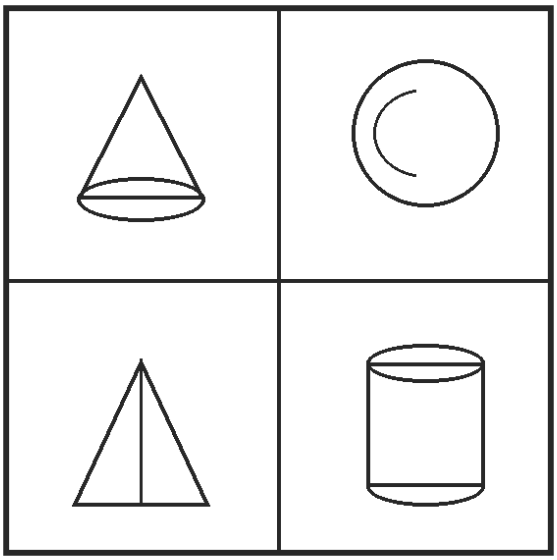

家長答案（請家長收起，批改時使用）

本卷跟足 11 月 21 日「綜合練習 (1)」的結構出題，題目全部新編。第 13、27、37、42 題係原卷錯題的同類題，解說見卷末。

甲部 計算

1. 15　2. 5　3. 0　4. 7　5. 3；7　6. 9；6　7. 10　8. 16　9. 9

乙部 符號填充

10. −　11. =　12. ≠　13. +　14. −

丙部 數列

15. 6；8　16. 11；8　17. 7；13　18. 20；14

丁部 應用題

19. 8 + 9 = 17（張）　20. 15 − 6 = 9（粒）　21. 11 − 7 = 4（盒）

22. 18 − 9 − 4 = 5（人）；步驟：18 − 9 = 9，9 − 4 = 5　23. 5 + 4 + 6 = 15（粒）

戊部 短答、量度與圖形

24. 十位；70　25. 52；五十二　26. 45 ＞ 41 ＞ 39 ＞ 33 ＞ 28　27. 約 3

28. B（7 塊）　29. R　30. D（鉛筆）　31. 較長 A（7 格）、較短 B（5 格）

32. 較長 B、較短 C（4 格）；最長 A、最短 C　33. B、A、C

34. 圓柱　35. 0　36. 25（或 27、29）　37. B、D　38. 詠彤　39. 美玲

40. 球體　41. 圓柱　42. 上

重點題解說（原卷弱點）

第 13 題：16 − 8 = 8，右邊要用 4 + 4 先等於 8，所以填「+」。提提芊穎：唔好一見到等號就填「=」，要先計好兩邊。

第 27 題：圖下面嗰行 5 個回形針度嘅係地毯，唔係枱；枱面對住嗰行得 3 個回形針。要睇清楚度緊邊樣嘢。

第 37 題：「哪些」即係答案可以多過一個。長方體（B）同角柱（D）都係得平面、冇曲面，疊得穩又唔會滾，兩個都要寫，漏一個當錯。

第 42 題：球體喺儲物櫃上層，角錐喺下層，所以球體喺角錐嘅上面。答之前先分清楚邊個喺上層、邊個喺下層。